සියලු ම හිමිකම් ඇවිරිණි / முழுப் பதிப்புரிமையுடையது / All Rights Reserved]

387018

ශ්‍රී ලංකා විභාග දෙපාර්තමේන්තුව
இலங்கைப் பரீட்சைத் திணைக்களம்
Department of Examinations, Sri Lanka

අධ්‍යයන පොදු සහතික පත්‍ර (උසස් පෙළ) විභාගය, 2015 අගෝස්තු
கல்விப் பொதுத் தராதரப் பத்திர (உயர் தர)ப் பரீட்சை, 2015 ஓகஸ்ற்
General Certificate of Education (Adv. Level) Examination, August 2015

සංයුක්ත ගණිතය I
இணைந்த கணிதம் I
Combined Mathematics I

10 S I

පැය තුනයි
மூன்று மணித்தியாலம்
Three hours

විභාග අංකය							

උපදෙස් :

※ මෙම ප්‍රශ්න පත්‍රය කොටස් දෙකකින් සමන්විත වේ;

A කොටස (ප්‍රශ්න 1 - 10) සහ **B කොටස** (ප්‍රශ්න 11 - 17).

※ **A කොටස:**

සියලු ම ප්‍රශ්නවලට පිළිතුරු සපයන්න. එක් එක් ප්‍රශ්නය සඳහා ඔබේ පිළිතුරු, සපයා ඇති ඉඩෙහි ලියන්න. වැඩිපුර ඉඩ අවශ්‍ය වේ නම්, ඔබට අමතර ලියන කඩදාසි භාවිත කළ හැකි ය.

※ **B කොටස:**

ප්‍රශ්න **පහකට** පමණක් පිළිතුරු සපයන්න. ඔබේ පිළිතුරු, සපයා ඇති කඩදාසිවල ලියන්න.

※ නියමිත කාලය අවසන් වූ පසු **A කොටසෙහි** පිළිතුරු පත්‍රය, **B කොටසෙහි** පිළිතුරු පත්‍රයට උඩින් සිටින පරිදි කොටස් දෙක අමුණා විභාග ශාලාධිපතිට භාර දෙන්න.

※ ප්‍රශ්න පත්‍රයෙහි **B කොටස පමණක්** විභාග ශාලාවෙන් පිටතට ගෙන යාමට ඔබට අවසර ඇත.

පරීක්ෂකවරුන්ගේ ප්‍රයෝජනය සඳහා පමණි.

(10) සංයුක්ත ගණිතය I

කොටස	ප්‍රශ්න අංකය	ලකුණු
A	1	
	2	
	3	
	4	
	5	
	6	
	7	
	8	
	9	
	10	
B	11	
	12	
	13	
	14	
	15	
	16	
	17	
	එකතුව	
	ප්‍රතිශතය	

I පත්‍රය	
II පත්‍රය	
එකතුව	
අවසාන ලකුණු	

අවසාන ලකුණු

ඉලක්කමෙන්	
අකුරින්	

සංකේත අංක

උත්තර පත්‍ර පරීක්ෂක		
පරීක්ෂා කළේ:	1	
	2	
අධීක්ෂණය කළේ:		

[දෙවැනි පිටුව බලන්න.

A කොටස

1. **ගණිත අභ්‍යුහන මූලධර්මය** භාවිතයෙන්, සියලු $n \in \mathbb{Z}^+$ සඳහා $8^n - 3^n$ යන්න 5 හි පූර්ණ සංඛ්‍යාමය ගුණාකාරයක් බව සාධනය කරන්න.

2. $|x| < 2 - x^2$ අසමානතාව සපුරාලන x හි සියලු ම තාත්ත්වික අගයන් සොයන්න.

[තුන්වැනි පිටුව බලන්න.

3. ආගන්ඩ් සටහනක් මත $|z-3+4i| = 2$ සමීකරණය සපුරාලන z සංකීර්ණ සංඛ්‍යාව මගින් නිරූපණය කරනු ලබන ලක්ෂ්‍යයේ පථය වන C හි දළ සටහනක් අඳින්න. **ඒනයින්,** C මත පිහිටි z සඳහා $|z+4i|$ හි වැඩිතම හා අඩුතම අගයන් සොයන්න.

.....

.....

.....

.....

.....

.....

.....

.....

.....

.....

.....

.....

.....

.....

.....

4. $n \in \mathbb{Z}^+$ හා $n \geq 5$ යැයි ගනිමු. $\left(3x+\frac{2}{x}\right)^n$ හි ද්විපද ප්‍රසාරණයේ x^{n-10} හි සංගුණකය 100 ට වඩා අඩු වේ. n හි අගය සොයන්න.

.....

.....

.....

.....

.....

.....

.....

.....

.....

.....

.....

.....

.....

.....

.....

.....

38708

5. $n \in \mathbb{Z}^+$ සඳහා, $\lim\limits_{y \to a} \dfrac{y^n - a^n}{y - a} = na^{n-1}$ ප්‍රතිඵලය භාවිතයෙන් හෝ අන් ක්‍රමයකින් හෝ

$\lim\limits_{x \to 0} \dfrac{\left(x + \sqrt{2}\right)^4 - 4}{\sin 4x} = 2\sqrt{2}$ බව පෙන්වන්න.

6. එක ම රූප සටහනක $y = e^x$ හා $y = e^{-x}$ වක්‍ර දෙකෙහි දළ සටහන් අඳින්න. x-අක්ෂයෙන් ද $-1 \le x \le 0$ පරාසය තුළ $y = e^x$ වක්‍රයෙන් හා $0 \le x \le 1$ පරාසය තුළ $y = e^{-x}$ වක්‍රයෙන් ද ආවෘත වන පෙදෙසෙහි වර්ගඵලය $2\left(1 - \frac{1}{e}\right)$ බව පෙන්වන්න.

7. තාත්ත්වික θ පරාමිතියක් ඇසුරෙන්, xy-තලයේ C වක්‍රයක් $x = 2 + \cos 2\theta$, $y = 4 \sin \theta$ යන සමීකරණ මගින් දෙනු ලැබේ. $\frac{dy}{dx}$ ව්‍යුත්පන්නය θ ඇසුරෙන් සොයා, $\theta = \frac{\pi}{4}$ වන ලක්ෂ්‍යයෙහි දී C වක්‍රයට ඇඳි අභිලම්බයේ සමීකරණය $x - \sqrt{2}y + 2 = 0$ බව පෙන්වන්න.

.....

.....

.....

.....

.....

.....

.....

.....

.....

.....

.....

.....

.....

.....

8. $A(10, 0)$ හා $B(0, 5)$ ලක්ෂ්‍ය යා කරන සරල රේඛාව $C(1, 2)$ හා $D(3, 6)$ ලක්ෂ්‍ය යා කරන CD රේඛා ඛණ්ඩයෙහි ලම්බ සමච්ඡේදකය බව පෙන්වන්න.

$ACBD$ චතුරස්‍රයේ වර්ගඵලය වර්ග ඒකක 25 ක් බව තවදුරටත් පෙන්වන්න.

.....

.....

.....

.....

.....

.....

.....

.....

.....

.....

.....

.....

.....

.....

.....

9. O මූල ලක්ෂ්‍යය ඔස්සේ ද $y = 1$ රේඛාවේත් $x^2 + y^2 - 2x - 2y + 1 = 0$ වෘත්තයේත් ඡේදන ලක්ෂ්‍ය දෙක ඔස්සේ ද යන වෘත්තයේ කේන්ද්‍රය හා අරය සොයන්න.

10. $\sin\alpha + \sin\beta = 1$ හා $\cos\alpha + \cos\beta = \sqrt{3}$ යැයි ගනිමු; මෙහි α හා β සුළු කෝණ වේ. $\alpha + \beta$ හි අගය සොයන්න.

* *

[ඉත්වැනි පිටුව බලන්න.

සියලු ම හිමිකම් ඇවිරිණි / முழுப் பதிப்புரிமையுடையது / All Rights Reserved]

ශ්‍රී ලංකා විභාග දෙපාර්තමේන්තුව
இலங்கைப் பரீட்சைத் திணைக்களம்
Department of Examinations, Sri Lanka

අධ්‍යයන පොදු සහතික පත්‍ර (උසස් පෙළ) විභාගය, 2015 අගෝස්තු
கல்விப் பொதுத் தராதரப் பத்திர (உயர் தர)ப் பரீட்சை, 2015 ஓகஸ்ற்
General Certificate of Education (Adv. Level) Examination, August 2015

සංයුක්ත ගණිතය I
இணைந்த கணிதம் I
Combined Mathematics I

10 S I

B කොටස

* ප්‍රශ්න **පහකට** පමණක් පිළිතුරු සපයන්න.

11. (*a*) x හි මාත්‍රය 4 වූ $F(x)$, $G(x)$ හා $H(x)$ යන බහුපද පහත දැක්වෙන පරිදි දෙනු ලැබේ.

$$F(x) \equiv \left(x^2 - \alpha x + 1\right)\left(x^2 - \beta x + 1\right), \text{ මෙහි } \alpha \text{ හා } \beta \text{ තාත්ත්වික නියත වේ;}$$

$$G(x) \equiv 6x^4 - 35x^3 + 62x^2 - 35x + 6,$$

$$H(x) \equiv x^4 + x^2 + 1.$$

(i) $F(x) = 0$ හා $G(x) = 0$ යන දෙකට ම එක ම මූල තිබේ නම්, α හා β මූල වශයෙන් ඇති වර්ගජ සමීකරණය $6x^2 - 35x + 50 = 0$ බව පෙන්වන්න.

ඒනයින්, $G(x) = 0$ සමීකරණයෙහි සියලු ම මූල සොයන්න.

(ii) $F(x) \equiv H(x)$ වෙයි නම්, α හා β ට තිබිය හැකි අගයන් සොයා, $H(x) = 0$ සමීකරණයේ මූල තාත්ත්වික **නො වන** බව පෙන්වන්න.

(*b*) (i) $f(x) \equiv 2x^4 + \gamma x^3 + \delta x + 1$ යැයි ගනිමු; මෙහි γ හා δ තාත්ත්වික නියත වේ. $f\left(-\frac{1}{2}\right) = 0$ හා $f(-2) = 21$ බව දී ඇති විට, $f(x)$ හි තාත්ත්වික ඒකජ සාධක දෙක සොයන්න.

(ii) සියලු ම තාත්ත්වික x සඳහා $(x^2 + x + 1)\,P(x) + (x^2 - 1)\,Q(x) = 3x$ සමීකරණය සපුරාලන $P(x)$ හා $Q(x)$ ඒකජ ප්‍රකාශන දෙක සොයන්න.

12. (*a*) නිපුණතා සංදර්ශන තරගයක විනිසුරුවන් ලෙස කටයුතු කිරීම සඳහා සාමාජික සාමාජිකාවන් හතර දෙනකුගෙන් සමන්විත විනිසුරු මඩුල්ලක් පිහිටුවා ගත යුතුව ඇත. මෙම විනිසුරු මඩුල්ල තෝරා ගත යුතුව ඇත්තේ ක්‍රීඩිකාවන් තුන් දෙනකු, ක්‍රීඩකයින් දෙදෙනකු, ගායිකාවන් හය දෙනකු, ගායකයින් පස් දෙනකු, නිළියන් දෙදෙනකු හා නළුවන් හතර දෙනකුගෙන් සමන්විත කණ්ඩායමකිනි. ප්‍රධාන විනිසුරු, ක්‍රීඩකයකු හෝ ක්‍රීඩිකාවක හෝ විය යුතු ය. විනිසුරු මඩුල්ලේ අනෙක් තිදෙනා තෝරා ගත යුතු වන්නේ ක්‍රීඩක ක්‍රීඩිකාවන් හැර කණ්ඩායමේ ඉතිරි අයගෙන් ය. පහත දැක්වෙන එක් එක් අවස්ථාවේ දී විනිසුරු මඩුල්ල පිහිටුවා ගත හැකි වෙනස් ආකාර ගණන සොයන්න.

(i) අඩු තරමින් එක් ගායිකාවක හා එක් ගායකයකු මඩුල්ලට ඇතුළත් විය යුතු ම නම්,

(ii) ප්‍රධාන විනිසුරු ඇතුළුව පිරිමි දෙදෙනකු හා ගැහැනු දෙදෙනකු මඩුල්ලේ සිටිය යුතු ම නම්,

(iii) ප්‍රධාන විනිසුරු ක්‍රීඩිකාවක විය යුතු ම නම්.

(*b*) $r \in \mathbb{Z}^+$ සඳහා $A(r+5)^2 - B(r+1)^2 = r + C$ වන පරිදි A, B හා C නියතවල අගයන් සොයන්න.

ඒනයින්, අපරිමිත ශ්‍රේණියක r වන පදය $U_r = \dfrac{8}{(r+1)^2(r+3)(r+5)^2}$ යන්න $f(r) - f(r+2)$ ලෙස ප්‍රකාශ කළ හැකි බව පෙන්වන්න; මෙහි $f(r)$ යනු නිර්ණය කළ යුතු ශ්‍රිතයක් වේ.

$\sum_{r=1}^{n} U_r$ ශ්‍රේණියේ ඓක්‍යය සොයා, $\sum_{r=1}^{\infty} U_r$ ශ්‍රේණිය, $\frac{1}{8^2} + \frac{1}{15^2}$ ඓක්‍යයට අභිසාරී වන බව **අපෝහනය** කරන්න.

13. (*a*) **A**, **B** හා **C** න්‍යාස තුනක්

$$\mathbf{A} = \begin{pmatrix} 0 & 2 & -3 \\ 0 & -1 & 2 \end{pmatrix}, \mathbf{B} = \begin{pmatrix} a & b & 0 \\ c & d & 0 \end{pmatrix} \text{ හා } \mathbf{C} = \begin{pmatrix} 3 & 4 \\ 2 & 3 \\ 1 & 2 \end{pmatrix}$$ මගින් දෙනු ලැබේ.

(i) $\mathbf{AC} = \mathbf{I}_2 = \begin{pmatrix} 1 & 0 \\ 0 & 1 \end{pmatrix}$ බව පෙන්වන්න. **CA** ගුණිතයත් සොයන්න.

(ii) $\mathbf{BC} = \mathbf{I}_2$ වන පරිදි a, b, c හා d හි අගයන් සොයන්න.

(iii) $(\lambda\mathbf{A} + \mu\mathbf{B})\mathbf{C} = \mathbf{I}_2$ වෙයි නම්, λ හා μ සම්බන්ධ කෙරෙන සමීකරණයක් ලබා ගන්න.

$\mathbf{D} = \begin{pmatrix} -3 & 8 & -6 \\ 2 & -5 & 4 \end{pmatrix}$ න්‍යාසය, **A** හා **B** ඇසුරෙන් ප්‍රකාශ කර, **ඒනයින්**, **DC** ගුණිතය සොයන්න.

(*b*) z සංකීර්ණ සංඛ්‍යාවක් $z = \cos\theta + i\sin\theta$ ලෙස දෙනු ලැබේ; මෙහි $\theta(-\pi < \theta \leq \pi)$ තාත්ත්වික පරාමිතියකි. ආගන්ඩ් සටහනක් මත z නිරූපණය කරන ලක්ෂ්‍යයේ C පථය සොයන්න.

$\cos\theta$ හා $\sin\theta$ සඳහා ප්‍රකාශන z හා $\frac{1}{z}$ ඇසුරෙන් ලබා ගන්න.

$w = \dfrac{2z}{z^2+1}$ හා $t = \dfrac{z^2-1}{z^2+1}$ යැයි ගනිමු; මෙහි z යන්න $z \neq \pm i$ වන පරිදි C මත පිහිටයි.

(i) $\text{Im}(w) = 0$ හා $\text{Re}(t) = 0$ බව පෙන්වන්න. **ඒනයින්**, හෝ අන් ක්‍රමයකින් හෝ, $w^2 + t^2 = 1$ බව තවදුරටත් පෙන්වන්න.

(ii) $w = 2$ සමීකරණය සපුරාලන z සංකීර්ණ සංඛ්‍යා සොයන්න.

(iii) $t = i$ සමීකරණය සපුරාලන z සංකීර්ණ සංඛ්‍යා සොයන්න.

14. (*a*) $x \neq 0$ සඳහා $y = x\sin\frac{1}{x}$ යැයි ගනිමු.

(i) $x\dfrac{dy}{dx} = y - \cos\frac{1}{x}$ හා

(ii) $x^4\dfrac{d^2y}{dx^2} + y = 0$

බව පෙන්වන්න.

(*b*) $x \neq 1$ සඳහා $f(x) = \dfrac{2x^2+1}{(x-1)^2}$ යැයි ගනිමු.

$f(x)$ හි පළමු ව්‍යුත්පන්නය හා හැරුම් ලක්ෂ්‍යය සොයන්න. හැරුම් ලක්ෂ්‍යය හා ස්පර්ශෝන්මුඛ දක්වමින්, $y = f(x)$ හි ප්‍රස්තාරයේ දළ සටහනක් අඳින්න.

(*c*) දී ඇති රූපයෙහි, $ABCD$ යනු, BC හා AD සමාන්තර පාද සහිත ත්‍රපීසියමකි. සෙන්ටිමීටරවලින් මනිනු ලබන එහි පාදවල දිග $AB = CD = a$, $BC = b$ හා $AD = b + 2x$ මගින් දෙනු ලැබේ; මෙහි $0 < x < a$ වේ. BE හා CF යනු පිළිවෙළින් B හා C ශීර්ෂවල සිට AD පාදය මතට ඇඳි ලම්බ වේ.

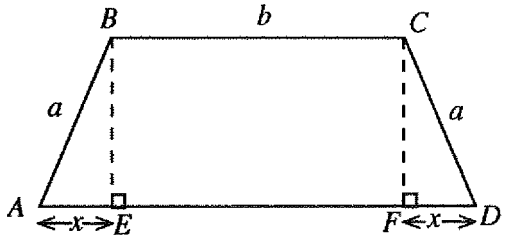

$ABCD$ ත්‍රපීසියමේ වර්ගඵලය $S(x)$, වර්ග සෙන්ටිමීටරවලින් $S(x) = (b+x)\sqrt{a^2 - x^2}$ මගින් දෙනු ලබන බව පෙන්වන්න.

$a = \sqrt{6}$ හා $b = 4$ නම්, x හි එක්තරා අගයකට $S(x)$ උපරිම වන බව තවදුරටත් පෙන්වා, x හි මෙම අගය හා ත්‍රපීසියමේ උපරිම වර්ගඵලය සොයන්න.

15. (*a*) $\int_0^{\pi} f(x)\,dx = \int_0^{\pi} f(\pi - x)\,dx$ බව පෙන්වන්න.

$\int_0^{\frac{\pi}{2}} \sin^2 x\,dx = \frac{\pi}{4}$ බවත් පෙන්වන්න.

ඒනයින්, $\int_0^{\pi} x\sin^2 x\,dx = \frac{\pi^2}{4}$ බව පෙන්වන්න.

(*b*) සුදුසු ආදේශයක් හා **කොටස් වශයෙන් අනුකලන** ක්‍රමය භාවිතයෙන්, $\int x^3 e^{x^2}\,dx$ සොයන්න.

(*c*) $\frac{1}{x^3-1} = \frac{A}{x-1} + \frac{Bx+C}{x^2+x+1}$ වන පරිදි A, B හා C නියතවල අගයන් සොයන්න.

ඒනයින්, $\frac{1}{x^3-1}$ යන්න x විෂයයෙන් අනුකලනය කරන්න.

(*d*) $t = \tan\frac{x}{2}$ ආදේශය භාවිතයෙන්, $\int_0^{\frac{\pi}{2}} \frac{dx}{5+4\cos x+3\sin x} = \frac{1}{6}$ බව පෙන්වන්න.

16. වෘත්ත දෙකක සමීකරණ $x^2+y^2+2gx+2fy+c=0$ හා $x^2+y^2+2g'x+2f'y+c'=0$ යැයි ගනිමු. මෙම වෘත්ත ප්‍රලම්බ ලෙස ඡේදනය වේ නම්, $2gg'+2ff'=c+c'$ බව පෙන්වන්න.

$x^2+y^2-8x-6y+16=0$ සමීකරණය සහිත C වෘත්තය x-අක්ෂය ස්පර්ශ කරන බව පෙන්වන්න.

O මූලයෙහි පොදු කේන්ද්‍රය පිහිටන, අරය r වූ C_1 වෘත්තයක් හා අරය $R\ (>r)$ වූ C_2 වෘත්තයක් පිළිවෙළින් A හා B ලක්ෂ්‍යවල දී C වෘත්තය ස්පර්ශ කරයි. r හා R හි අගයන් ද A හා B හි ඛණ්ඩාංක ද සොයන්න.

S යනු, C හා C_1 යන වෘත්ත දෙක ම ප්‍රලම්බ ලෙස ඡේදනය කරන හා y-අක්ෂය ස්පර්ශ කරන වෘත්තයක් යැයි ගනිමු. S සඳහා තිබිය හැකි සමීකරණ දෙක සොයන්න.

C හා C_2 යන වෘත්ත දෙකට ම B ලක්ෂ්‍යයෙහි දී අඳින ලද පොදු ස්පර්ශකයට x-අක්ෂය P හි දී ද y-අක්ෂය Q හි දී ද හමු වේ. පොදු ස්පර්ශකයේ සමීකරණය $4x+3y=40$ බවත්, PQ රේඛා ඛණ්ඩය විෂ්කම්භයක් ලෙස ඇති වෘත්තයේ සමීකරණය $3(x^2+y^2)-30x-40y=0$ බවත් පෙන්වන්න.

17. (*a*) $\cos^2(\alpha+\beta)+\cos^2\alpha+\cos^2\beta-2\cos(\alpha+\beta)\cos\alpha\cos\beta=1$ බව පෙන්වන්න.

(*b*) $f(x) = \cos 2x + \sin 2x + 2(\cos x + \sin x) + 1$ යැයි ගනිමු. $f(x)$ යන්න $k(1+\cos x)\sin(x+\alpha)$ ආකාරයෙන් ප්‍රකාශ කරන්න; මෙහි k හා α යනු නිර්ණය කළ යුතු නියත වේ.

$g(x)$ යන්න $\frac{f(x)}{1+\cos x} = \sqrt{2}\{g(x)-1\}$ වන ලෙස ගනිමු; මෙහි $-\frac{\pi}{2} \le x \le \frac{\pi}{2}$ වේ.

$y=g(x)$ හි ප්‍රස්තාරයේ දළ සටහනක් ඇඳ **ඒනයින්,** ඉහත දී ඇති පරාසය තුළ $f(x)=0$ සමීකරණයට එක විසඳුමක් පමණක් ඇති බව පෙන්වන්න.

(*c*) සුපුරුදු අංකනයෙන්, ABC ත්‍රිකෝණයක් සඳහා සයින් නීතිය භාවිතයෙන්,

$a(b-c)\operatorname{cosec}\frac{A}{2}\cot\frac{A}{2} = (b+c)^2\tan\left(\frac{B-C}{2}\right)\sec\left(\frac{B-C}{2}\right)$ බව පෙන්වන්න.

* * *

සියලු ම හිමිකම් ඇවිරිණි / முழுப் பதிப்புரிமையுடையது / All Rights Reserved]

ශ්‍රී ලංකා විභාග දෙපාර්තමේන්තුව
இலங்கைப் பரீட்சைத் திணைக்களம்
Department of Examinations, Sri Lanka

අධ්‍යයන පොදු සහතික පත්‍ර (උසස් පෙළ) විභාගය, 2015 අගෝස්තු
கல்விப் பொதுத் தராதரப் பத்திர (உயர் தர)ப் பரீட்சை, 2015 ஓகஸ்ற்
General Certificate of Education (Adv. Level) Examination, August 2015

සංයුක්ත ගණිතය II
இணைந்த கணிதம் II
Combined Mathematics II

10 S II

පැය තුනයි
மூன்று மணித்தியாலம்
Three hours

විභාග අංකය							

උපදෙස් :

※ මෙම ප්‍රශ්න පත්‍රය කොටස් දෙකකින් සමන්විත වේ;

A කොටස (ප්‍රශ්න 1 - 10) සහ **B කොටස** (ප්‍රශ්න 11 - 17).

※ **A කොටස:**

සියලු ම ප්‍රශ්නවලට පිළිතුරු සපයන්න. එක් එක් ප්‍රශ්නය සඳහා ඔබේ පිළිතුරු, සපයා ඇති ඉඩෙහි ලියන්න. වැඩිපුර ඉඩ අවශ්‍ය වේ නම්, ඔබට අමතර ලියන කඩදාසි භාවිත කළ හැකි ය.

※ **B කොටස:**

ප්‍රශ්න **පහකට** පමණක් පිළිතුරු සපයන්න. ඔබේ පිළිතුරු, සපයා ඇති කඩදාසිවල ලියන්න.

※ නියමිත කාලය අවසන් වූ පසු **A කොටසෙහි** පිළිතුරු පත්‍රය, **B කොටසේහි** පිළිතුරු පත්‍රයට උඩින් සිටින පරිදි කොටස් දෙක අමුණා විභාග ශාලාධිපතිට භාර දෙන්න.

※ ප්‍රශ්න පත්‍රයෙහි **B කොටස පමණක්** විභාග ශාලාවෙන් පිටතට ගෙන යාමට ඔබට අවසර ඇත.

※ මෙම ප්‍රශ්න පත්‍රයෙහි g මගින් ගුරුත්වජ ත්වරණය දැක්වෙයි.

පරීක්ෂකවරුන්ගේ ප්‍රයෝජනය සඳහා පමණි.

(10) සංයුක්ත ගණිතය II		
කොටස	ප්‍රශ්න අංකය	ලකුණු
A	1	
	2	
	3	
	4	
	5	
	6	
	7	
	8	
	9	
	10	
B	11	
	12	
	13	
	14	
	15	
	16	
	17	
	එකතුව	
	ප්‍රතිශතය	

I පත්‍රය	
II පත්‍රය	
එකතුව	
අවසාන ලකුණු	

අවසාන ලකුණු

ඉලක්කමෙන්	
අකුරින්	

සංකේත අංක

උත්තර පත්‍ර පරීක්ෂක		
පරීක්ෂා කළේ:	1	
	2	
අධීක්ෂණය කළේ:		

[දෙවැනි පිටුව බලන්න.

A කොටස

1. ස්කන්ධ පිළිවෙළින් m හා $2m$ වූ A හා B අංශු දෙකක්, අචල කුඩා සැහැල්ලු සුමට C කප්පියක් උඩින් යන $2l$ දිගකින් යුතු සැහැල්ලු අවිතන්‍ය තන්තුවක දෙකෙළවරට සම්බන්ධ කර ඇත. එක් එක් අංශුව C ට l ගැඹුරකින් අල්ලා තබා පද්ධතිය මෙම පිහිටීමෙන් නිශ්චලතාවයේ සිට මුදා හරිනු ලැබේ. **ශක්ති සංස්ථිති මූලධර්මය යෙදීමෙන්**, එක් එක් අංශුව $x(< l)$ දුරක් චලනය වී ඇති විට එක් එක් අංශුවෙහි v වේගය, $v^2 = \frac{2gx}{3}$ මගින් දෙනු ලබන බව පෙන්වන්න. **ඒනයින්**, හෝ අන් ක්‍රමයකින් හෝ, පද්ධතියේ ත්වරණය සොයන්න.

.....

.....

.....

.....

.....

.....

.....

.....

.....

.....

.....

.....

.....

2. දෙකෙළවර ම විවෘත, දිග l වූ සෘජු සිහින් සුමට OA නලයක්, O ඉහළ කෙළවර තිරස් පොළොවට $h(>l)$ උසක් ඉහළින් ඇති ව, යටි අත් සිරස සමග $\frac{\pi}{3}$ කෝණයක් සාදන පරිදි සවි කර ඇත. නලය ඇතුළත, O හි සීරුවෙන් තබනු ලැබූ අංශුවක් නලය දිගේ පහළට ලිස්සා යයි. ඊළඟට අංශුව A කෙළවරින් නලයෙන් ඉවත්ව ගොස්, O සිට $\sqrt{3}\,l$ තිරස් දුරකින් වූ B ලක්ෂ්‍යයක දී පොළොව සමග ගැටෙයි. (i) A හි දී අංශුවේ වේගය $\sqrt{gl}$ බව ද (ii) $h = \frac{3l}{2}$ බව ද පෙන්වන්න.

.....

.....

.....

.....

.....

.....

.....

.....

.....

.....

.....

.....

.....

.....

3. සුමට තිරස් මේසයක් මත u ප්‍රවේගයෙන් චලනය වෙමින් පවතින ස්කන්ධය m වූ P අංශුවක්, P හි පෙතෙහි නිසලව තිබෙන m ස්කන්ධය සහිත වෙනත් Q අංශුවක් සමග සරල ලෙස ගැටෙයි. අංශු දෙක අතර ප්‍රත්‍යාගති සංගුණකය $e\,(0<e<1)$ නම්, ගැටුමෙන් පසු P හා Q හි ප්‍රවේගවල ඒකාත්‍යය හා අන්තරය සඳහා ප්‍රකාශන, u හා e ඇසුරෙන් ලබා ගන්න. **ජිනයින්.** හෝ අන් ක්‍රමයකින් හෝ, ගැටුමට පසු පද්ධතියේ ඉතිරි වන චාලක ශක්තිය, මුල් චාලක ශක්තියට දරන අනුපාතය, $\left(1+e^2\right):2$ බව පෙන්වන්න.

.....

.....

.....

.....

.....

.....

.....

.....

.....

.....

.....

.....

.....

.....

4. එන්ජිම H kW ජවයකින් ක්‍රියා කරමින් ස්කන්ධය මෙට්‍රික් ටොන් M වූ ලොරියක්, සෘජු සමතලා පාරක් දිගේ u m s^{-1} නියත ප්‍රවේගයකින් ගමන් කරයි. ඉන් පසුව, එන්ජිම $2H$ kW ජවයකින් ක්‍රියා කරමින්, තිරසට α කෝණයක් ආනත වූ සෘජු පාරක් දිගේ ලොරිය ඉහළට චලනය වන අතර, චලිතයට ප්‍රතිරෝධය තිරස් චලිතයට ඇති ප්‍රතිරෝධය ම වේ. මෙම අවස්ථාවේ දී ලොරියේ උපරිම වේගය $\dfrac{2Hu}{H+Mgu\sin\alpha}$ m s^{-1} බව පෙන්වන්න.

.....

.....

.....

.....

.....

.....

.....

.....

.....

.....

.....

.....

.....

.....

.....

.....

5. සුපුරුදු අංකනයෙන්, O මූලයක් අනුබද්ධයෙන් A හා B ලක්ෂ්‍ය දෙකක පිහිටුම් දෛශික පිළිවෙළින් $\lambda\mathbf{i} + \mu\mathbf{j}$ හා $\mu\mathbf{i} - \lambda\mathbf{j}$ වේ; මෙහි λ හා μ යනු $0 < \lambda < \mu$ වන පරිදි වූ තාත්ත්වික සංඛ්‍යා වේ. $A\hat{O}B$ සෘජු කෝණයක් බව පෙන්වන්න. AB රේඛා ඛණ්ඩයෙහි මධ්‍ය ලක්ෂ්‍යය C යැයි ගනිමු. $\overrightarrow{OC}$ දෛශිකයේ විශාලත්වය 2 නම් හා එය $\mathbf{i}$ ඒකක දෛශිකය සමග $\frac{\pi}{6}$ ක කෝණයක් සාදයි නම්, λ හා μ හි අගයන් සොයන්න.

.....

.....

.....

.....

.....

.....

.....

.....

.....

.....

.....

.....

.....

.....

.....

6. ඒකාකාර සිහින් බර දණ්ඩක්, එහි එක කෙළවරක් රළු තිරස් ගෙබිමක් මත හා අනෙක් කෙළවර සුමට සිරස් බිත්තියකට එරෙහිව නිසලව තිබේ. දණ්ඩ බිත්තිය සමග θ සුළු කෝණයක් සාදමින්, බිත්තියට ලම්බ සිරස් තලයක පිහිටයි. මෙම පිහිටීමේ දී දණ්ඩ සමතුලිතව තිබීම සඳහා, දණ්ඩ හා ගෙබිම අතර μ ඝර්ෂණ සංගුණකය $\mu \geq \frac{1}{2}\tan\theta$ සපුරාලිය යුතු බව පෙන්වන්න.

.....

.....

.....

.....

.....

.....

.....

.....

.....

.....

.....

.....

.....

.....

7. A, B හා C යනු S නියැදි අවකාශයක ස්වායත්ත සිද්ධි තුනක් යැයි ගනිමු. සුපුරුදු අංකනයෙන්, $P(A \cup B \cup C)$ සම්භාවිතාව, $P(A), P(B)$ හා $P(C)$ සම්භාවිතා ඇසුරෙන් ප්‍රකාශ කරන්න.

$P(A) = \frac{1}{4}$, $P(B) = \frac{1}{2}$ හා $P(A \cup B \cup C) = \frac{3}{4}$ බව තවදුරටත් දී ඇති විට, $P(C)$ සම්භාවිතාව සොයන්න.

.....

.....

.....

.....

.....

.....

.....

.....

.....

.....

.....

.....

.....

.....

.....

8. සර්වසම පෙනුමැති විදුලි බල්බ 7 ක් පෙට්ටියක අඩංගු වේ. මෙම බල්බවලින් 2 ක් දෝෂ සහිත බවත්, ඉතිරිය පාවිච්චි කළ හැකි බවත් දැනගෙන ඇත. දෝෂ සහිත බල්බ 2 ම හඳුනා ගන්නා තුරු එකකට පසුව අනෙක වශයෙන් බල්බ පරීක්ෂා කරනු ලැබේ.

(i) බල්බ දෙකක් පමණක්, (ii) බල්බ තුනක් පමණක්

පරීක්ෂා කිරීමෙන් පසු දෝෂ සහිත බල්බ දෙක ම හඳුනා ගැනීමට හැකිවීමේ සම්භාවිතාව සොයන්න.

.....

.....

.....

.....

.....

.....

.....

.....

.....

.....

.....

.....

.....

.....

.....

9. **පූර්ණ සංඛ්‍යා** හතක S කුලකයක සංඛ්‍යා පහත දැක්වෙන අයුරු **ආරෝහණ පටිපාටියට** සකසා ඇත.

$S = \{1,\ 2,\ 4,\ x,\ y,\ 11,\ 13\}$.

සංඛ්‍යාවල මධ්‍යන්‍යය y නම්, x හා y හි අගයන් නිර්ණය කරන්න. සංඛ්‍යාවල විචලතාව $\frac{120}{7}$ බව පෙන්වන්න.

10. මුහුණත් 1, 2, 3, 4, 5, 6 ලෙස සලකුණු කරන ලද දාදු කැටයක් 50 වරක් උඩ දැමූ විට දාදු කැටයේ උඩත් මුහුණතේ දක්නට ලැබුණු අංකවල සංඛ්‍යාත ව්‍යාප්තිය පහත දැක්වේ:

අංකය	1	2	3	4	5	6
සංඛ්‍යාතය	α	9	γ	11	8	7

සංඛ්‍යාත ව්‍යාප්තියෙහි මධ්‍යන්‍යය 3.66 බව දී ඇත්නම්, α හා γ හි අගයන් නිර්ණය කර, මාතය හා මධ්‍යස්ථය සොයන්න.

සියලු ම හිමිකම් ඇවිරිණි / முழுப் பதிப்புரிமையுடையது / All Rights Reserved]

ශ්‍රී ලංකා විභාග දෙපාර්තමේන්තුව
இலங்கைப் பரீட்சைத் திணைக்களம்
Department of Examinations, Sri Lanka

අධ්‍යයන පොදු සහතික පත්‍ර (උසස් පෙළ) විභාගය, 2015 අගෝස්තු
கல்விப் பொதுத் தராதரப் பத்திர (உயர் தர)ப் பரீட்சை, 2015 ஓகஸ்ற்
General Certificate of Education (Adv. Level) Examination, August 2015

සංයුක්ත ගණිතය II
இணைந்த கணிதம் II
Combined Mathematics II

10 S II

B කොටස

※ ප්‍රශ්න **පහකට** පමණක් පිළිතුරු සපයන්න.

(මෙම ප්‍රශ්න පත්‍රයෙහි g මගින් ගුරුත්වජ ත්වරණය දැක්වෙයි.)

11. (*a*) P හා Q අංශු දෙකක් අචල තිරස් ගෙබිමක් මත ලක්ෂ්‍ය දෙකක සිට පිළිවෙළින් u හා $\frac{u}{\sqrt{2}}$ වේගවලින් සිරස් ව ඉහළට, එක විට ප්‍රක්ෂේප කරනු ලැබේ. ගෙබිම සිට $\frac{u^2}{4g}$ උසකින් අචල සුමට තිරස් සිවිලිමක් ඇත. සිවිලිමත් එය සමග ගැටෙන P අංශුවත් අතර ප්‍රත්‍යාගති සංගුණකය $\frac{1}{\sqrt{2}}$ වන අතර, අංශු දෙක ගුරුත්වය යටතේ පමණක් ඉහළට හා පහළට චලනය වේ.

(i) P අංශුව සිවිලිම සමග ගැටීමට මොහොතකට පෙර එහි වේගයත්, ගැටීම සිදු වන මොහොත දක්වා ගත වූ T_1 කාලයත් සොයන්න.

P අංශුව එහි ප්‍රක්ෂේප ලක්ෂ්‍යය කරා $\frac{u\sqrt{3}}{2}$ වේගයෙන් ආපසු පැමිණෙන බව පෙන්වන්න.

(ii) Q අංශුව, සිවිලිමට යන්තමින් ළඟා වන බව පෙන්වා, එම මොහොත දක්වා ගත වූ T_2 කාලය සොයන්න.

(iii) P හා Q අංශු දෙකෙහි ප්‍රක්ෂේප මොහොතේ සිට ආපසු අදාළ ප්‍රක්ෂේප ලක්ෂ්‍ය වෙතට පැමිණීම දක්වා, ඒවායේ චලිත සඳහා ප්‍රවේග-කාල ප්‍රස්තාරවල දළ සටහන්, එක ම රූපයක අඳින්න.

(iv) ප්‍රවේග-කාල ප්‍රස්තාර භාවිතයෙන්, P අංශුව සිවිලිම සමග ගැටෙන මොහොතේ දී Q අංශුව, සිවිලිමට $\frac{u^2}{2g}\left(\sqrt{2}-1\right)^2$ සිරස් දුරක් පහළින් තිබෙන බව පෙන්වන්න.

(*b*) S නැවක්, u ඒකාකාර වේගයෙන් උතුරු දිශාවට යාත්‍රා කරයි. එහි සරල රේඛීය පථ P වරායක සිට නැගෙනහිර පැත්තට p ලම්බ දුරකින් පිහිටා ඇත. එක්තරා මොහොතක දී, $\overrightarrow{PS}$ හි දිශාව නැගෙනහිරින් දකුණට 45° කෝණයක් සාදන විට දී ම, S නැව හමු වීම සඳහා B_1 හා B_2 සැපයුම් බෝට්ටු දෙකක් P වරායේ සිට වෙනස් දිශා දෙකකට $v\left(\frac{u}{\sqrt{2}} < v < u\right)$ ඒකාකාර වේගයෙන් එක විට ගමන් අරඹයි. මෙම බෝට්ටු පිළිවෙළින් T_1 හා $T_2\,(> T_1)$ කාලවල දී S නැවට ළඟා වේ. $\frac{v}{u} = \sqrt{\frac{2}{3}}$ බව තවදුරටත් දී ඇත්නම්, S නැවට සාපේක්ෂ ව B_1 හා B_2 බෝට්ටුවල චලිත සඳහා සාපේක්ෂ ප්‍රවේග ත්‍රිකෝණ දෙකෙහි දළ සටහන් එක ම රූපයක ඇඳ, P වරායේ සිට S නැව වෙත ගමන් කිරීමේ දී B_1 හා B_2 බෝට්ටුවල නියම චලිත දිශා සොයන්න.

තවදුරටත්, $T_2 - T_1 = \frac{2\sqrt{3}\,p}{u}$ බව පෙන්වන්න.

12. (*a*) දී ඇති රූපයේ, ABC ත්‍රිකෝණය, ස්කන්ධය M වූ ඒකාකාර සුමට කුඤ්ඤයක ගුරුත්ව කේන්ද්‍රය ඔස්සේ යන සිරස් හරස්කඩක් නිරූපණය කරයි. කුඤ්ඤය තුළ BC ට සමාන්තර වූ DE සිහින් සුමට පීල්ලක් ඇත. AB හා AC රේඛා, අදාළ මුහුණත්වල උපරිම බෑවුම් රේඛා වන අතර $A\hat{B}C = \alpha$ හා $B\hat{A}C = \frac{\pi}{2}$ වේ.

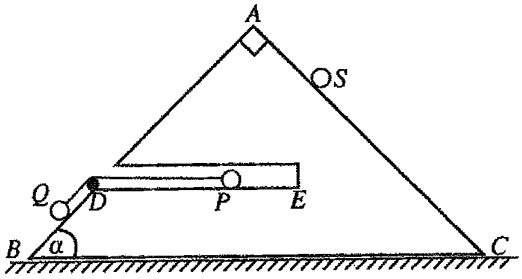

BC අඩංගු මුහුණත අචල සුමට තිරස් මේසයක් මත සිටින පරිදි කුඤ්ඤය තබා ඇත. එක එකක ස්කන්ධය m වූ P හා Q අංශු දෙකක් පිළිවෙළින් DE හා DB මත තබා ඒවා, D ලක්ෂ්‍යයෙහි පිහිටි කුඩා සුමට සැහැල්ලු කප්පියක් උඩින් යන සැහැල්ලු අවිතන්‍ය තන්තුවකින් ඇඳා ඇත. ස්කන්ධය $\frac{m}{2}$ වූ S අංශුවක් AC මත ලක්ෂ්‍යයක තබා P හා Q සම්බන්ධ කෙරෙන තන්තුව ඇදී තිබිය දී, පද්ධතිය මෙම පිහිටීමෙන් නිශ්චලතාවයේ සිට මුදා හරිනු ලැබේ.

P අංශුවට ED දිගේ ද Q අංශුවට DB දිගේ ද S අංශුවට AC දිගේ ද චලිත සමීකරණ ලියා දක්වන්න. තවදුරටත්, මුළු පද්ධතියට ම BC දිගේ චලිත සමීකරණය ලියන්න. **ඒනයින්,** කුඤ්ඤයේ ත්වරණය $\overrightarrow{BC}$ හි දිශාවට $\dfrac{mg\sin\alpha}{2M+3m-2m\cos\alpha}$ බව පෙන්වන්න.

(*b*) $ABCD$ සිහින් සුමට නලයක් පහත රූපයේ දැක්වෙන ආකාරයට නවා ඇත. නලයේ AB කොටස සෘජු වේ. BCD කොටසට අරය a හා කේන්ද්‍රය O වූ අර්ධ වෘත්තාකාර හැඩයක් ඇති අතර BD විෂ්කම්භය AB ට ලම්බ වේ. AB තිරස් ව හා ඉහළින් ම ඇතිව නලය සිරස් තලයක සවිකර ඇත. නලය ඇතුළත, ස්කන්ධය m වූ P අංශුවක් හා ස්කන්ධය $3m$ වූ Q අංශුවක් $l\left(>\frac{\pi a}{2}\right)$ දිගැති සැහැල්ලු අවිතන්‍ය තන්තුවකින් සම්බන්ධ කර ඇත. ආරම්භයේ දී, තන්තුව ඇදී AB දිගේ තිබෙන අතර Q අංශුව B ලක්ෂ්‍යයේ තබා ඇත. Q අංශුව මෙම පිහිටීමේ සිට යන්තමින් විස්ථාපනය කරනු ලැබීමෙන් t කාලයක දී OQ අරය θ සුළු කෝණයකින් හැරේ.

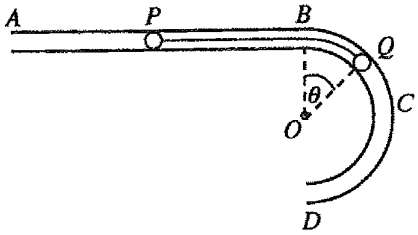

ශක්ති සංස්ථිති මූලධර්මය යෙදීමෙන්, $\left(\dfrac{d\theta}{dt}\right)^2 = \dfrac{3g}{2a}(1-\cos\theta)$ බව පෙන්වන්න.

ඒනයින්, හෝ අන් ක්‍රමයකින් හෝ, P අංශුවේ ත්වරණය $\dfrac{3g}{4}\sin\theta$ බව පෙන්වන්න.

t කාලයේ දී Q අංශුව මත නලයෙන් ඇති කරන ප්‍රතික්‍රියාව හා තන්තුවේ ආතතිය සොයන්න.

13. ස්වාභාවික දිග a හා ප්‍රත්‍යාස්ථතා මාපාංකය $2mg$ වූ සැහැල්ලු ප්‍රත්‍යාස්ථ තන්තුවක එක කෙළවරක් අචල A ලක්ෂ්‍යයකට ගැට ගසා ඇත. A හි මට්ටමට ඉහළින් සවිකරන ලද B කුඩා සුමට නාදැත්තක් උඩින් තන්තුව යන අතර, තන්තුවේ අනෙක් කෙළවරට ස්කන්ධය m වූ P අංශුවක් සම්බන්ධ කර ඇත. AB දුර a වන අතර, BA යටි අත් සිරස සමග සාදන කෝණය $\frac{\pi}{3}$ වේ. ආරම්භයේ දී P අංශුව B නාදැත්තට යන්තමින් පහළින් තබා සිරස් ව පහළට $u=\sqrt{\frac{5ga}{8}}$ වේගයෙන් ප්‍රක්ෂේප කරනු ලැබේ. කාලය t වන විට තන්තුවේ විතතිය x යැයි ගනිමු. P අංශුවෙහි සරල අනුවර්තී චලිතය සඳහා සමීකරණය $\ddot{X}+\omega^2 X=0$ ආකාරයෙන් ප්‍රකාශ කළ හැකි බව පෙන්වන්න; මෙහි $X=x-\frac{a}{2}$ හා $\omega^2=\frac{2g}{a}$ වේ. මෙම චලිත සමීකරණය සඳහා, $\dot{X}^2=\omega^2\left(A^2-X^2\right)$ ආකාරයේ විසඳුමක් උපකල්පනය කරමින්, සරල අනුවර්තී චලිතයේ විස්තාරය $A=\frac{3a}{4}$ බව පෙන්වා, අංශුව ළඟා වන පහත් ම පිහිටීම වූ E ලක්ෂ්‍යය සොයන්න.

සරල අනුවර්තී චලිතයේ C කේන්ද්‍රය පසු කර අංශුව යන විට එහි වේගය $\frac{3u}{\sqrt{5}}$ බව පෙන්වන්න.

අනුරූප වෘත්ත චලිතය සැලකීමෙන්, හෝ අන් ක්‍රමයකින් හෝ, P අංශුව පහළට චලනය වීමේ දී C පසු කර යෑමට ගන්නා කාලය $\sqrt{\frac{a}{2g}}\left\{\frac{\pi}{2}-\cos^{-1}\left(\frac{2}{3}\right)\right\}$ බව පෙන්වන්න.

තවදුරටත්, P අංශුව එහි පහත් ම පිහිටීම වූ E වෙත ළඟා වීමට ගන්නා කාලයත්, නාදැත්ත මත තන්තුවෙන් ඇති කරනු ලබන බලයේ උපරිම විශාලත්වයත් සොයන්න.

[නවවැනි පිටුව බලන්න.

14. xy-තලයේ O මූලය අනුබද්ධයෙන් A, B හා C ලක්ෂ්‍යවල පිහිටුම් දෛශික, සුපුරුදු අංකනයෙන්, පිළිවෙළින් $\mathbf{i}+\mathbf{j}, 2\mathbf{i}+3\mathbf{j}$ හා $4\mathbf{i}+2\mathbf{j}$ වේ. $\overrightarrow{BP}=\frac{1}{3}\overrightarrow{BC}$ වන පරිදි BC මත පිහිටි P ලක්ෂ්‍යයේ පිහිටුම් දෛශිකය සොයන්න.

$ABCD$ ත්‍රපීසියමක D ශීර්ෂය ගනු ලබන්නේ BC පාදය AD ට සමාන්තර වන පරිදි ද PD, AC ට ලම්බ වන පරිදි ද වේ. D හි පිහිටුම් දෛශිකය $\frac{11}{3}\mathbf{i}-\frac{1}{3}\mathbf{j}$ බව පෙන්වන්න.

දුර මීටරවලින් ද බලය නිව්ටනවලින් ද මනින ලද, xy-තලයෙහි බල හතරකින් සමන්විත වන පද්ධතියක් පහත දැක්වෙන පරිදි දී ඇත.

ක්‍රියා ලක්ෂ්‍යයෙහි ඛණ්ඩාංක	බලයේ Ox, Oy දිශාවලට සංරචක
$B\,(2,3)$	$\mathbf{F}_1=(2,4)$
$C\,(4,2)$	$\mathbf{F}_2=(3,1)$
$L\,(0,1)$	$\mathbf{F}_3=(6,12)$
$M\,(0,6)$	$\mathbf{F}_4=(9,3)$

(i) $\mathbf{F}_1$ හා $\mathbf{F}_2$ බල දෙකෙහි O මූලය හා $A\,(1,1)$ ලක්ෂ්‍යය වටා ඝූර්ණ ශුන්‍ය වන බව පෙන්වා, **ඒනයින්**, $\mathbf{F}_1$, $\mathbf{F}_2$, $\mathbf{F}_3$ හා $\mathbf{F}_4$ බල හතරෙන් සමන්විත පද්ධතියෙහි O මූලය වටා G ඝූර්ණය දක්ෂිණාවර්ත අතට $60\ \text{N m}$ විශාලත්වයෙන් යුතු වන බව පෙන්වන්න.

(ii) පද්ධතියෙහි $\mathbf{R}$ සම්ප්‍රයුක්තයේ (X, Y) සංරචක සොයන්න. **ඒනයින්**, $\mathbf{R}$ හි ක්‍රියා රේඛාවට y-අක්ෂය හමු වන ලක්ෂ්‍යය සොයන්න.

(iii) බල පද්ධතිය $(0,-4)$ ලක්ෂ්‍යයෙහි ක්‍රියා කරන තනි බලයකින් හා ඝූර්ණය G_1 වූ යුග්මයකින් ප්‍රතිස්ථාපනය කරනු ලැබේ. G_1 හි අගය සොයා, තනි බලයේ ක්‍රියා රේඛාව $D\left(\frac{11}{3},-\frac{1}{3}\right)$ ලක්ෂ්‍යය ඔස්සේ යන බව පෙන්වන්න.

15. (*a*) AB, BC, CD, DE හා EA ඒකාකාර බර දඬු පහක් ඒවායේ කෙළවරවලින් සුමට ලෙස සන්ධි කර රූපයේ දැක්වෙන පරිදි $ABCDE$ පංචාස්‍රයක හැඩයේ රාමු සැකිල්ලක් සාදා ඇත. BC, CD හා DE දඬු එක එකක දිග l හා බර W වේ. AB හා EA දඬු එක එකක දිග $2l$ හා බර $2W$ වේ. දිග l වූ සැහැල්ලු PQ දණ්ඩක P හා Q දෙකෙළවර පිළිවෙළින් AE හා AB හි මධ්‍ය ලක්ෂ්‍යවලට සුමට ලෙස අසව් කර ඇත. A සන්ධියෙන් නිදහස් ලෙස එල්ලා ඇති රාමු සැකිල්ල සිරස් තලයක සමතුලිතව පිහිටයි.

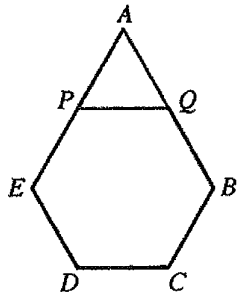

B සන්ධියෙහි ප්‍රතික්‍රියාවේ තිරස් හා සිරස් සංරචක වන (X, Y) ද PQ සැහැල්ලු දණ්ඩේ තෙරපුම වන T ද නිර්ණය කිරීම සඳහා ප්‍රමාණවත් සමීකරණ ලියා දක්වන්න. **ඒනයින්**, B සන්ධියේ දී AB දණ්ඩ මත ප්‍රතික්‍රියාව සොයා, $T=\frac{7W}{\sqrt{3}}$ බව පෙන්වන්න.

(*b*) දෘඪ සැහැල්ලු දඬු හතක් ඒවායේ කෙළවරවලින් නිදහස් ලෙස සන්ධි කර සාදා ගත් **සමමිතික** රාමු සැකිල්ලක් රූපයේ දැක්වේ. AB, BC හා DE දඬු තිරස් වේ. $A\hat{D}E = C\hat{E}D = 45^\circ$ සහ $B\hat{D}E = B\hat{E}D = 30^\circ$ වේ.

රාමු සැකිල්ලට A, B හා C සන්ධිවල දී රූපයේ දැක්වෙන භාර යොදා ඇති අතර, D හා E සන්ධිවල දී සමාන P සිරස් බලවලින් ආධාර කර ඇත. P හි අගය සොයන්න.

බෝ අංකනය යෙදීමෙන්, A හා D සන්ධි සඳහා ප්‍රත්‍යාබල සටහන් එක ම රූපයක අඳින්න. **ඒනයින්**, AD, AB, DE හා DB දඬුවල ප්‍රත්‍යාබල සොයා, ඒවා ආතති හෝ තෙරපුම් වශයෙන් ප්‍රකාශ කරන්න.

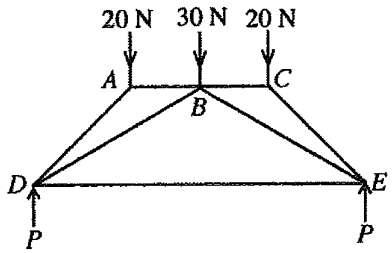

16. ආධාරකයේ අරය a හා උස h වූ ඒකාකාර ඝන කේතුවක හා අරය a වූ ඒකාකාර ඝන අර්ධගෝලයක ස්කන්ධ කේන්ද්‍රවල පිහිටුම්, **අනුකලනය** භාවිතයෙන් සොයන්න.

ස්කන්ධය M, අරය a හා කේන්ද්‍රය O වූ ඒකාකාර ඝන අර්ධගෝලයකින්, ආධාරකයේ අරය a හා උස a වූ C නම් සෘජු වෘත්ත කේතුව ඉවත් කිරීමෙන් ලැබෙන ඝන වස්තුව R යැයි ගනිමු. M ඇසුරෙන් R ඝන වස්තුවේ ස්කන්ධය, හා ස්කන්ධ කේන්ද්‍රයේ පිහිටීම සොයන්න.

ඊළඟට රූපයේ දැක්වෙන ආකාරයට S සංයුක්ත වස්තුවක් සෑදෙන පරිදි C ඝන කේතුව R ඝන වස්තුවට සම්බන්ධ කරනු ලැබේ. මෙහි දී C හි ආධාරකයේ වෘත්තාකාර දාරය R හි ගැටියට දෘඪ ලෙස සම්බන්ධ කරනු ලබන්නේ ගැටියේ O කේන්ද්‍රය C හි ආධාරකයේ කේන්ද්‍රය සමග සම්පාත වන පරිදි ය.

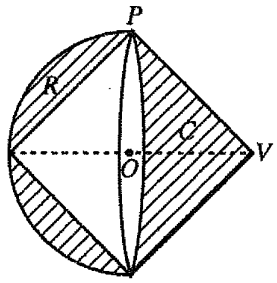

S සංයුක්ත වස්තුවේ ගුරුත්ව කේන්ද්‍රය G, එහි සමමිතික අක්ෂය මත, ආධාරකවල පොදු කේන්ද්‍රය වන O සිට $\frac{a}{8}$ දුරකින් පිහිටන බව පෙන්වන්න.

(*a*) S සංයුක්ත වස්තුව, දාරයේ P ලක්ෂ්‍යයකින් නිදහස් ලෙස එල්ලනු ලැබේ.

(i) සමමිතික අක්ෂය වන OV හි තිරසට ආනතිය සොයන්න; මෙහි V යනු C හි ශීර්ෂයයි.

(ii) සමමිතික අක්ෂය තිරස් ලෙස තබා ගැනීම සඳහා V ශීර්ෂයට ඇදිය යුතු අංශුවේ m ස්කන්ධය, M ඇසුරෙන් සොයන්න.

(*b*) V හි දී සම්බන්ධ කරන ලද m ස්කන්ධය ද සහිත S සංයුක්ත වස්තුව, එල්ලන ලද ලක්ෂ්‍යයෙන් ඉවත් කර, එහි අර්ධගෝලීය පෘෂ්ඨය අචල සුමට තිරස් තලයක ඇතිව සමතුලිතව තබනු ලැබේ. OV අක්ෂය හා උඩු අත් සිරස අතර කෝණයේ අගය පරාසය සොයන්න.

17. (*a*) මිනිසෙක්, යතුරු පැදිය, පා පැදිය හෝ පයින් යන ගමන් ක්‍රම තුනෙන් එකක් පමණක් යොදා ගනිමින්, නිශ්චිත මාර්ගයක් දිගේ අනතුරු සහිත ගමනක් යයි.

මිනිසා මෙම ගමනාගමන ක්‍රම යොදා ගැනීමේ සම්භාවිතා පිළිවෙළින් p, $2p$ හා $3p$ වේ නම්, p හි අගය සොයන්න.

ඔහු මෙම ගමනාගමන ක්‍රම යොදා ගැනීමේ දී අනතුරක් සිදු වීමේ සම්භාවිතා පිළිවෙළින් $\frac{1}{5}$, $\frac{1}{10}$ සහ $\frac{1}{20}$ වේ නම්, තනි ගමනක දී අනතුරක් සිදු වීමේ සම්භාවිතාව ගණනය කරන්න.

ගමන අතරතුරේ දී මිනිසාට අනතුරක් සිදු වී ඇති බව දන්නේ නම්, මිනිසා ගමන් කරමින් සිටියේ,

(i) යතුරු පැදියෙන්, (ii) පා පැදියෙන්, (iii) පයින්

වීමේ සම්භාවිතාව ගණනය කරන්න.

වඩාත් ආරක්ෂිත වූයේ කුමන ගමනාගමන ක්‍රමය ද? ඔබගේ පිළිතුර සනාථ කරන්න.

(*b*) කාර්මික විද්‍යාල සිසුන් 100 ක කණ්ඩායමක් මහා මාර්ගයක එක්තරා කොටසක් මනින ලද අතර, ඔවුන්ගේ මිනුම් පහත සඳහන් සංඛ්‍යාත වගුවේ දක්වා ඇත.

දිග (මීටර) x	99.8	99.9	100.0	100.1	100.2	100.3	100.4
සංඛ්‍යාතය f	5	7	12	33	25	15	3

උපකල්පිත මධ්‍යන්‍යය $\bar{x}_a = 100.1$ හා $d = 0.1$ සඳහා, $y = \frac{x - \bar{x}_a}{d}$ පරිණාමනය භාවිතයෙන්, අනුරූප y හා y^2 අගයන් ඇතුළත් කෙරෙන පරිදි ඉහත වගුව විස්තීරණය කරන්න. y හි මධ්‍යන්‍යය සොයා, **ඒනයින්** x හි මධ්‍යන්‍යය 100.123 බව පෙන්වන්න.

$\sqrt{1.917} \approx 1.385$ බව ගනිමින්, සංඛ්‍යාත ව්‍යාප්තියේ සම්මත අපගමනය, ආසන්න වශයෙන් දශමස්ථාන තුනකට නිවැරදි ව, ගණනය කරන්න.

* * *